＿＿日目 たし算ピラミッド その1



むずかしさ ★☆☆

＿＿月＿＿日　お名前 ＿＿＿＿＿＿＿＿＿＿　できたら○ □

■ となりどうしの数を たすと、上の段の数になります。

（例）

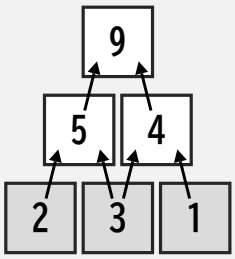

となりの2つをたして、上のマスに書きます。
（2＋3＝5　3＋1＝4）
いちばん上まで うめましょう。

(1)

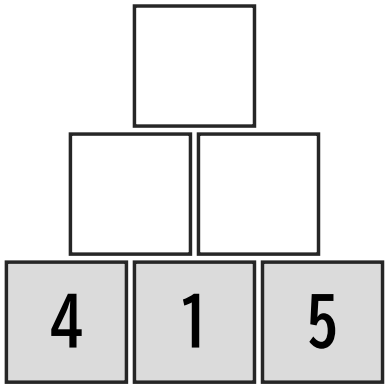

(2)

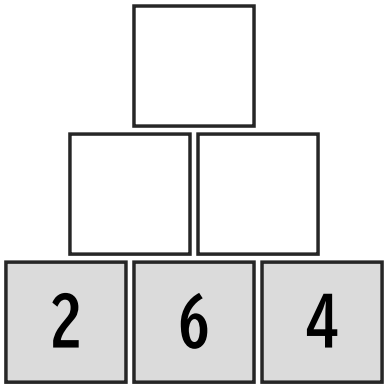

(3)

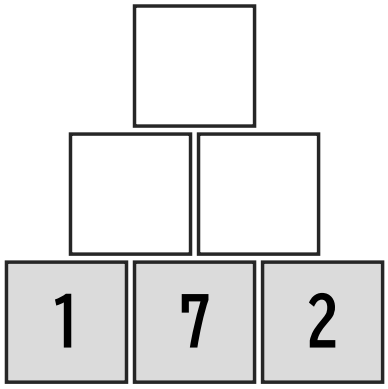

(4)

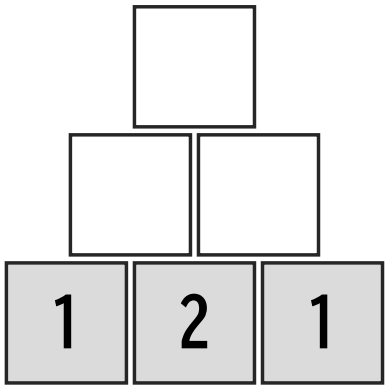

(5)

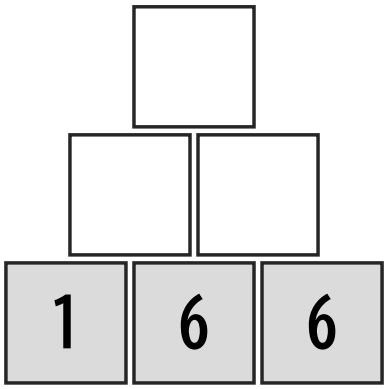

(6)

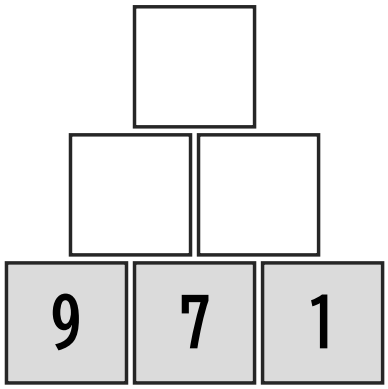

ねらい：となりの数をたして、順に積み上げる力を使います。
声かけ：『下から順に、ひとつずつ』

アプリはこちら

こんな脳トレや体操が 450本以上。
アプリ「まいにち元気道場」なら、
毎日の脳トレと体操は ずっと無料！
健康は継続から！ダウンロードしてね



まいにち元気道場 監修 作業療法士 石田竜生

© 株式会社おふとん　施設・教室・ご家庭で自由にコピーしてお使いいただけます